Name _____ **Klasse** _____

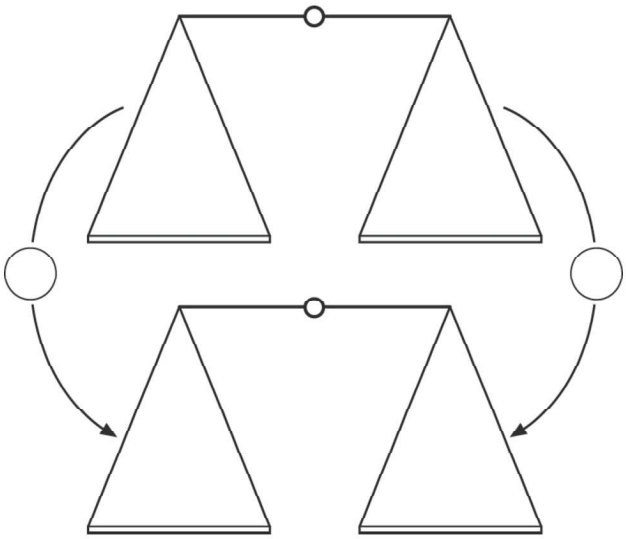

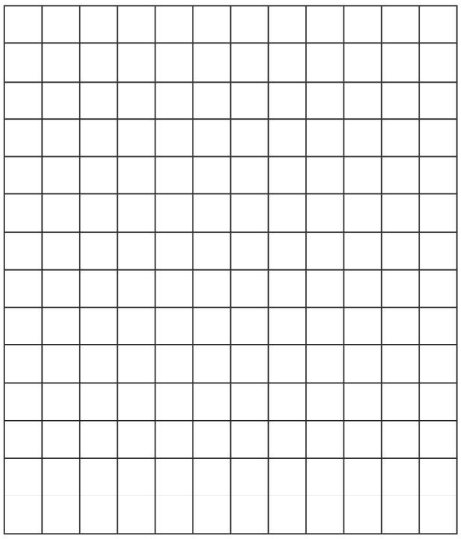

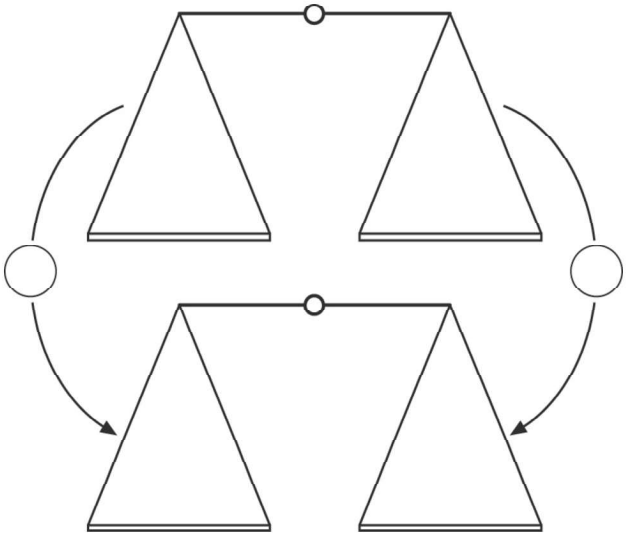

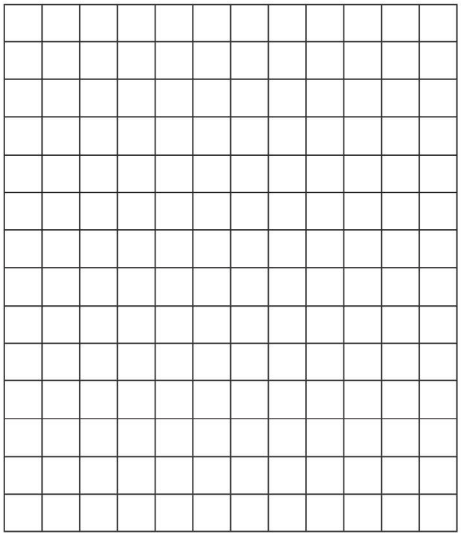

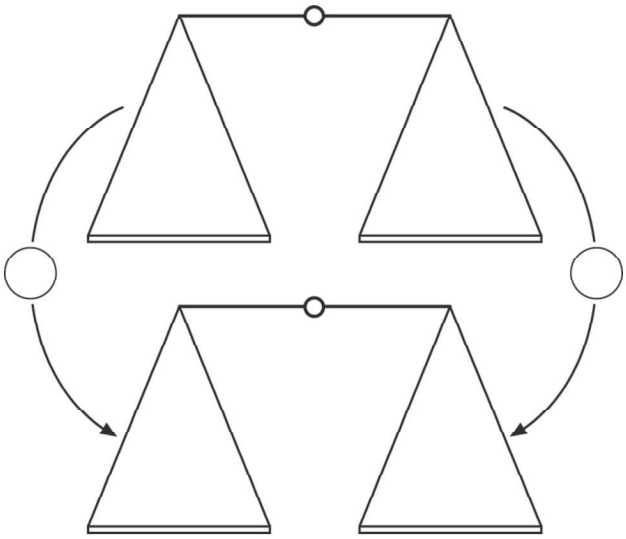

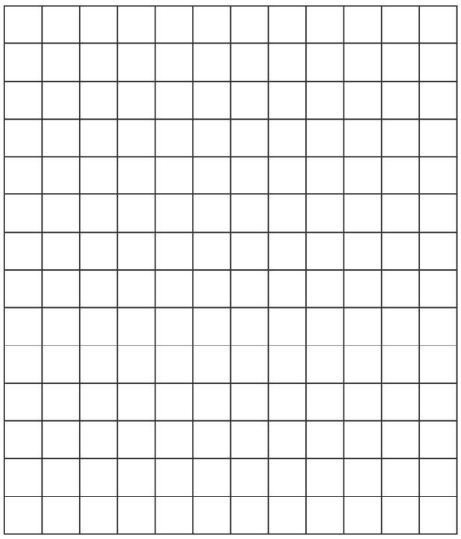

© Westermann Gruppe
Technische Zeichnungen: Günter Schlierf, Lachendorf

Name _____ **Klasse** _____

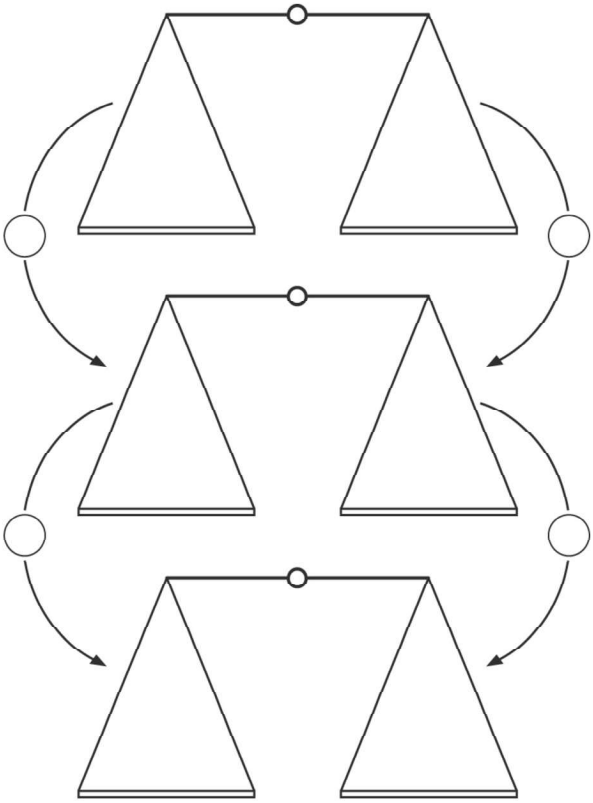



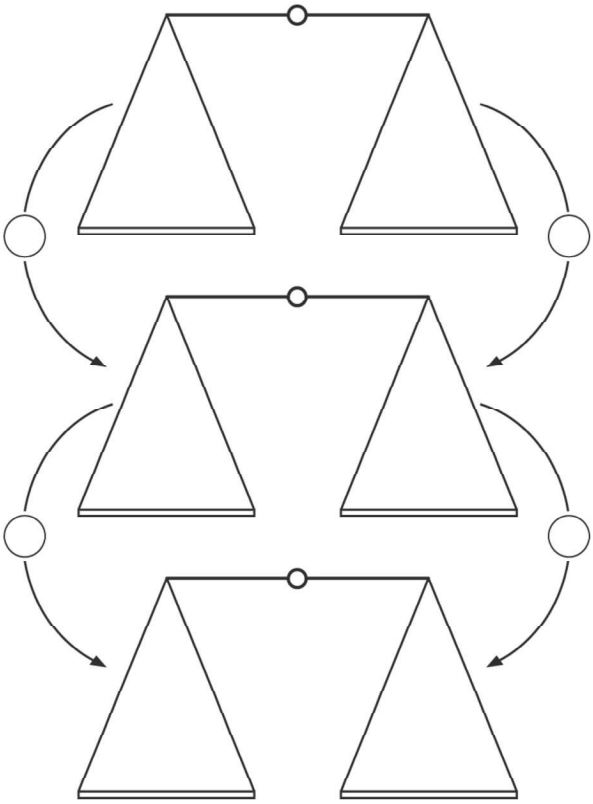



© Westermann Gruppe
Technische Zeichnungen: Günter Schlierf, Lachendorf

Name _____ **Klasse** _____

1 a) Hier steht immer x für eine Zahl. Verbinde mit dem zugehörigen Rechenausdruck.

Die Summe von 5 und x.	5 – x
Das Fünffache von x.	x + 5
5 vermindert um x.	x : 5
x vermindert um 5.	5 · x
Der 5. Teil von x.	x – 5

b)

x wird durch 7 dividiert.	7 · x
Zu x wird 7 addiert.	7 – x
x wird von 7 subtrahiert.	x + 7
7 wird von x subtrahiert.	x : 7
x wird mit 7 multipliziert.	x – 7

2 Verbinde mit dem zugehörigen Rechenausdruck.

Ich multipliziere eine Zahl x mit 4 und addiere 9 zum Ergebnis.	9 · x + 4
Ich addiere 4 zu einer Zahl x und subtrahiere 9 vom Ergebnis.	x · 4 + 9
Ich bilde die Summe aus dem 9-fachen einer Zahl x und 4.	9 + x – 4
Von der Summe aus 9 und einer Zahl x subtrahiere ich 4.	x + 4 – 9

© Westermann Gruppe