Der Zahlenraum bis 1000

Der Tausender am Zahlenstrahl

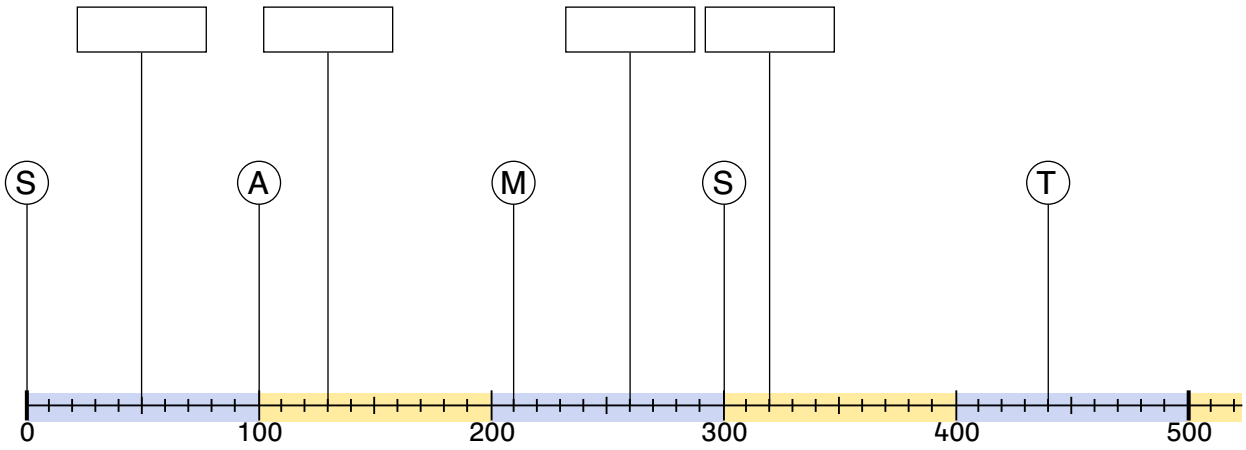

1. Trage die Buchstaben für folgende Zahlen ein. Nutze den Zahlenstrahl oben. Achtung: Er geht auf Seite 27 weiter.

.....	.....	.....	.....	.....	.....	.....	.....	.....	.....
900	100	300	0	950	650	210	820	440	1000

2. Trage die richtigen Zahlen in die Kärtchen am Zahlenstrahl ein.

3. Kreuze die richtigen Aussagen zu dem Zahlenstrahl oben an.

a) Der Zahlenstrahl oben zeigt den Bereich von …

- ◯ 1 bis 1000.
- ◯ 0 bis 100.
- ◯ 100 bis 1000.
- ◯ 0 bis 1000.

b) Der dritte Hunderter ist …

- ◯ gelb.
- ◯ blau.

c) Der zweite, vierte, sechste, achte und zehnte Hunderter sind …

- ◯ gelb.
- ◯ blau.
- ◯ abwechselnd gelb und blau.

© Westermann Gruppe

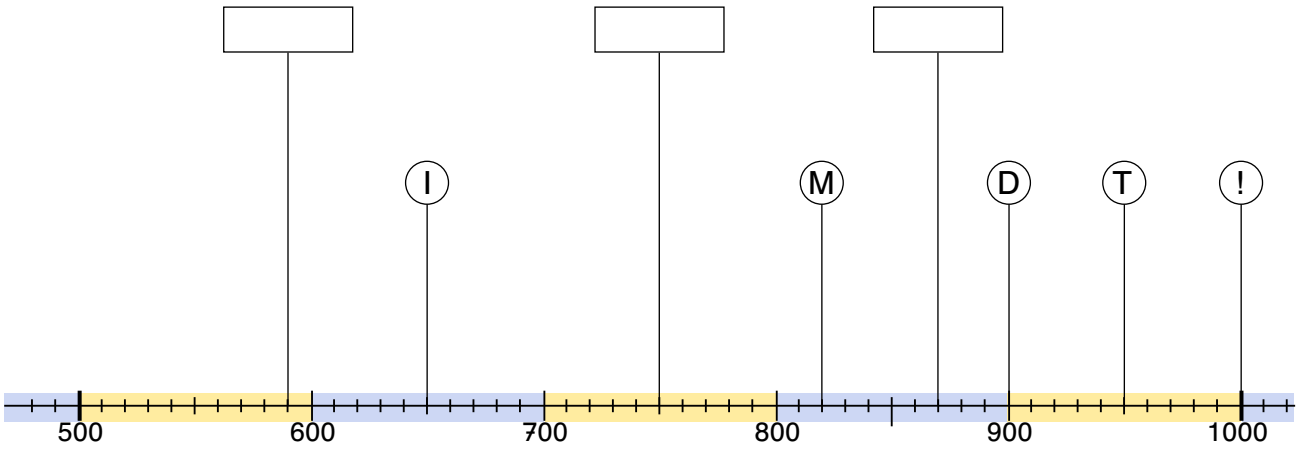

4. **Welche Zahlen sind gemeint?**

a)

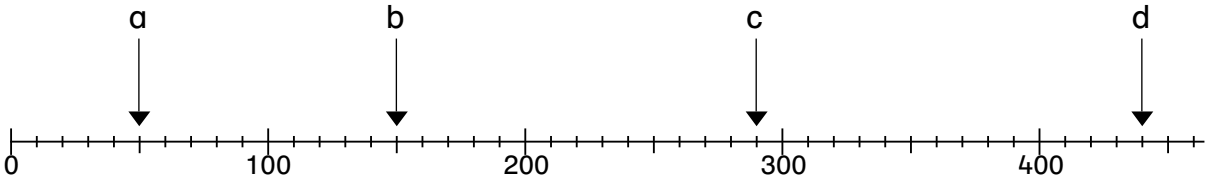

a = ... b = ... c = ... d = ...

b)

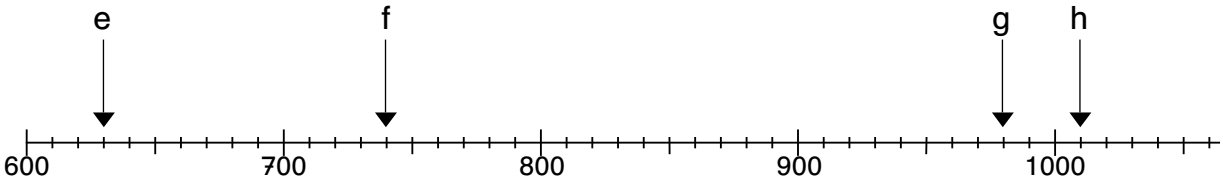

e = ... f = ... g = ... h = ...

5. **Trage die Lage der folgenden Zahlen so genau wie möglich ein. Verbinde.**

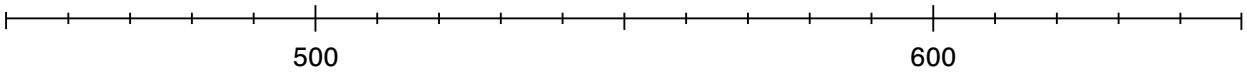

481 465 505 555 599 615

6. **Markiere die folgenden Zahlen am Zahlenstrahl unten:**
456, 498, 522, 555, 606, 643.

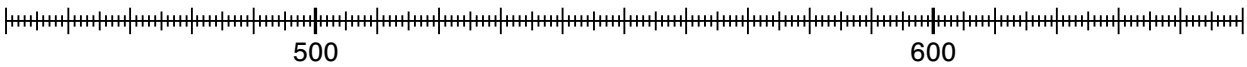

© Westermann Gruppe