❶ Male die Felder in der Hundertertafel farbig an.



rot
101, 110, 115, 116, 134, 137,
141, 150, 151, 160, 164, 167,
185, 186, 191, 200

blau
113, 118, 135, 136, 143, 148,
153, 158, 165, 166, 183, 188

grün
112, 119, 123, 128, 145, 146,
155, 156, 173, 178, 182, 189

gelb
105, 106, 132, 139, 144, 147,
154, 157, 162, 169, 195, 196

101									110
			114					119	
	122					127			
		133					138		
	142								150
				155	156				
161								169	
		173			176				
			184				188		
191									200

Welche Zahlen haben sich hinter den grauen Feldern versteckt?
Schreibe die Zahlen der Größe nach auf.



❷

201									
								219	
		223							
						247			
	262								
							278		
									300

_____, _____, _____, _____, _____,
_____, _____, _____, _____, _____

❸

									310
									400

_____, _____, _____, _____, _____,
_____, _____, _____, _____, _____

Ausschnitte aus Hundertertafeln. Ergänze die fehlenden Zahlen.

❶

511					516
		523			
			534	535	

❷

	774		776		
				787	

❸

	863				
					887
892					

❹

					970
975					
					1000

❺

	407

	425	

	456	

		500

❻

	666	

612		

	700

	684

❼

						1000

☺ 😐 ☹

Ergänze die fehlenden Zahlen.

❶ a)

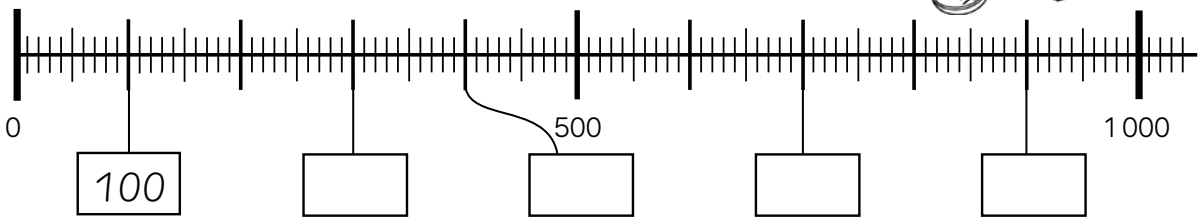



b)

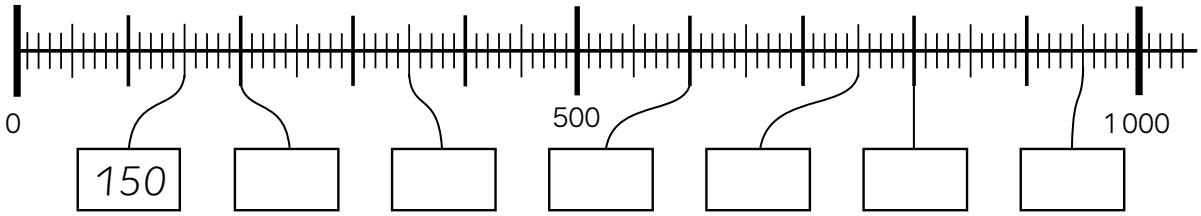

❷ a)

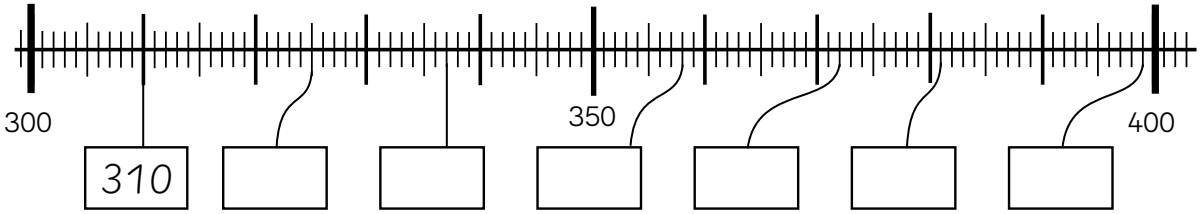

b)

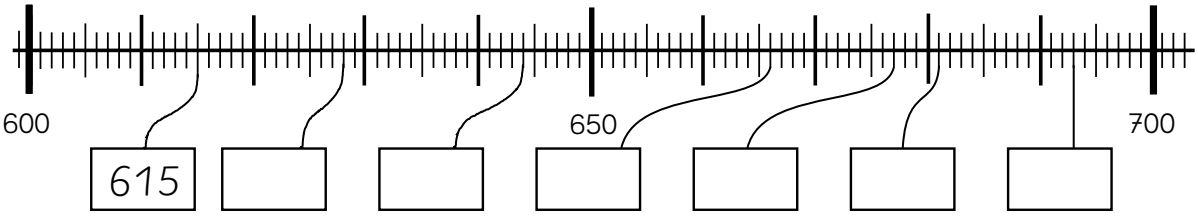

c)

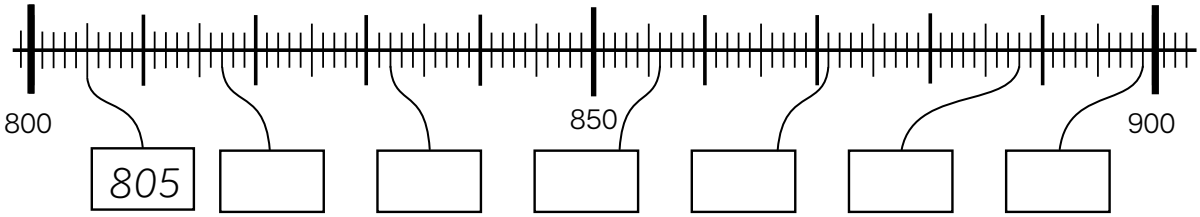

❸ Verbinde die Zahlen mit den Positionen am Zahlenstrahl.

776 795 799 803 818 841 849 855

❶ – ❸ Zunächst den Wert der Positionen an den Zahlenstrahlen erkennen, dann die fehlenden Zahlen ermitteln oder zuordnen.

☺ 😐 ☹

❶ Nachbarzahlen

412	413	414
	970	
	256	
	500	
	649	
	333	

❷ Nachbarzehner

300	307	310
	514	
	261	
	730	
	475	
	652	

❸ Nachbarhunderter

500	543	600
	428	
	619	
	377	
	784	
	40	



❹ Vergleiche. Setze <, > oder = ein.

a)	b)	c)	d)
190 ◯ 201	531 ◯ 298	678 ◯ 687	193 ◯ 139
375 ◯ 507	327 ◯ 405	786 ◯ 768	93 ◯ 103
608 ◯ 599	478 ◯ 478	876 ◯ 867	930 ◯ 913
299 ◯ 300	710 ◯ 709	778 ◯ 887	931 ◯ 931
682 ◯ 681	890 ◯ 901	865 ◯ 865	390 ◯ 93

❺ Ordne die Zahlen der Größe nach.

a) 356 401 270 481 365

☐ < ☐ < ☐ < ☐ < ☐

b) 142 241 421 124 214

☐ > ☐ > ☐ > ☐ > ☐

❻ Verbinde die Punkte der Größe nach. Beginne bei 812.

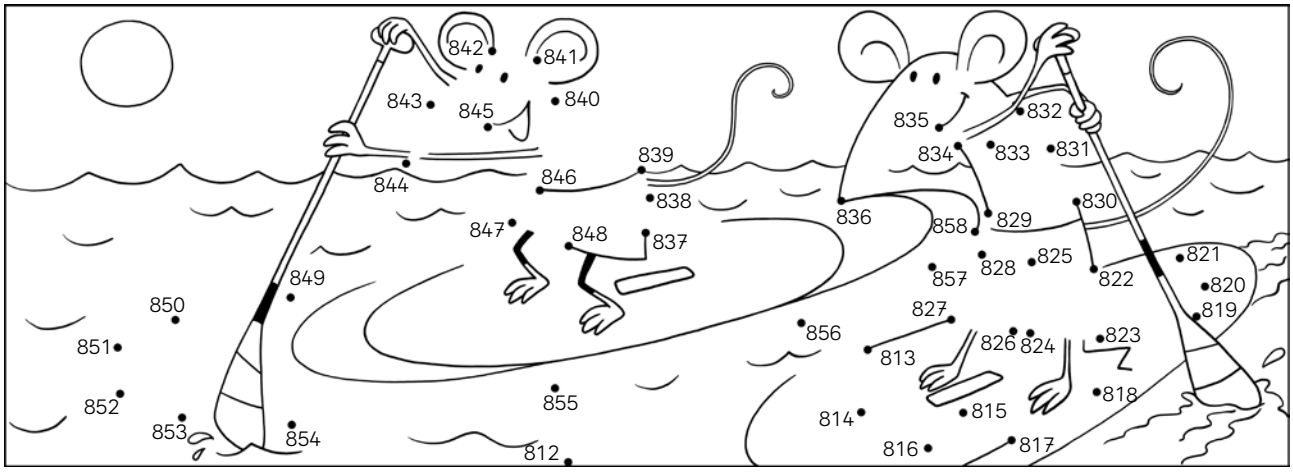

☺ 😐 ☹

1 Wie viele Hunderter, Zehner und Einer sind es?

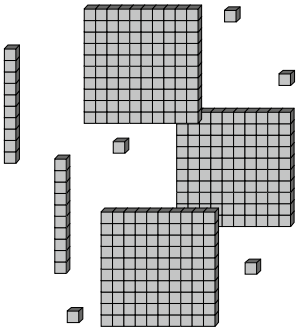

H	Z	E
3	2	5

a)

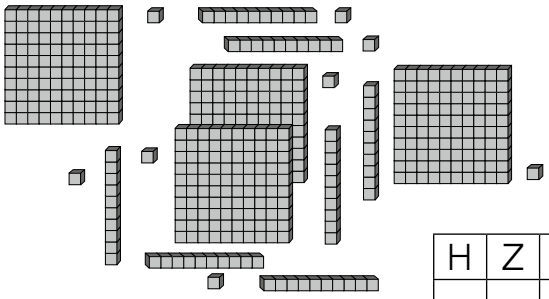

H	Z	E

b)

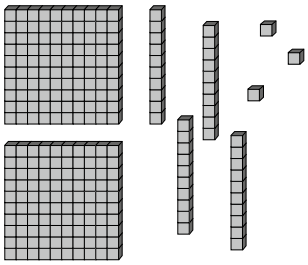

H	Z	E

c)

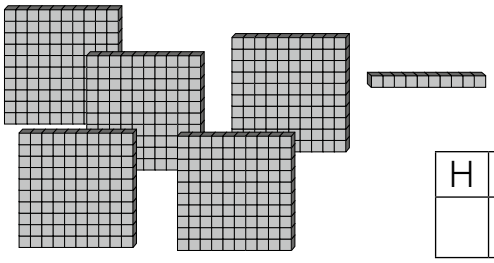

H	Z	E

2 Wie heißen die Zahlen?

a)

3 H 7 Z ☐ E

H	Z	E

b)

☐ H ☐ Z ☐ E

H	Z	E

c)



☐ H ☐ Z ☐ E

H	Z	E

d)

☐ H ☐ Z ☐ E

H	Z	E

3 Schreibe die Zahlen.

a)

H	Z	E
8	3	4

Zahl: 834

b)

H	Z	E
9	6	7

Zahl: ☐

c)

H	Z	E
4	8	9

Zahl: ☐

d)

H	Z	E
5	0	5

Zahl: ☐

e)

H	Z	E
7	3	0

Zahl: ☐

f)

H	Z	E
	9	9

Zahl: ☐

☺ 😐 ☹

1 Schreibe die Zerlegung.

712 = [7] H [1] Z [2] E
845 = [ ] H [ ] Z [ ] E
603 = [ ] H [ ] Z [ ] E
499 = [ ] H [ ] Z [ ] E
327 = [ ] H [ ] Z [ ] E
530 = [ ] H [ ] Z [ ] E

2 Schreibe die Zerlegung.

648 = 600 + 40 + 8
472 = _____ + ____ + __
260 = _____ + ____ + __
593 = _____ + ____ + __
907 = _____ + ____ + __
85 = _____ + ____ + __

3 Schreibe die Zahlen.

5 H 7 Z 6 E

H	Z	E
5	7	6

576

a) 4 Z 3 H 8 E

H	Z	E

[ ]

b) 2 Z 5 E 6 H

H	Z	E

[ ]

c) 8 H 5 Z

H	Z	E

[ ]

d) 8 Z 1 E

H	Z	E

[ ]

4 Schreibe die Zahlen.

a) einhundertsechsundneunzig

H	Z	E

Zahl [ ]

b) siebenhundertneunundvierzig

H	Z	E

Zahl [ ]

c) zweihundertvierunddreißig

H	Z	E

Zahl [ ]

d) vierhundertsechsundzwanzig

H	Z	E

Zahl [ ]

e) sechshundertdreiundachtzig

H	Z	E

Zahl [ ]

f) neunhundertzwölf

H	Z	E

Zahl [ ]

5 Schreibe die Zerlegung und das Zahlwort.

562 = [5] H [6] Z [2] E: *fünfhundertzweiundsechzig*

a) 475 = [ ] H [ ] Z [ ] E: _____

b) 328 = [ ] H [ ] Z [ ] E: _____

c) 643 = [ ] H [ ] Z [ ] E: _____

☺ 😐 ☹

Mit Hundertern und Zehnern bis 1 000 addieren und subtrahieren

1

600 + 100 = ☐
500 + 400 = ☐
200 + 600 = ☐
100 + 200 = ☐
700 + 300 = ☐
100 + 700 = ☐
300 + 200 = ☐
800 + 100 = ☐
400 + 200 = ☐

2

900 − 300 = ☐
400 − 200 = ☐
600 − 600 = ☐
1 000 − 900 = ☐
700 − 200 = ☐
800 − 400 = ☐
500 − 300 = ☐
700 − 400 = ☐
800 − 100 = ☐

3

100 + ☐ = 600
500 − ☐ = 100
700 − ☐ = 0
500 + ☐ = 700
300 + ☐ = 800
1 000 − ☐ = 700
300 + ☐ = 400
600 − ☐ = 300
900 − ☐ = 200

3: 100 200 300 300 400 500 500 600 700 700



4

700 + 30 = ☐
500 + 60 = ☐
900 + 80 = ☐
200 + 20 = ☐
350 + 50 = ☐
430 + 50 = ☐
810 + 40 = ☐
620 + 70 = ☐
340 + 20 = ☐

5

280 − 80 = ☐
390 − 70 = ☐
530 − 10 = ☐
470 − 30 = ☐
750 − 20 = ☐
870 − 70 = ☐
660 − 30 = ☐
980 − 50 = ☐
190 − 70 = ☐

6

210 + ☐ = 290
870 − ☐ = 840
440 + ☐ = 480
560 − ☐ = 500
930 + ☐ = 970
770 − ☐ = 740
320 + ☐ = 370
880 − ☐ = 800
610 + ☐ = 660

6: 30 30 40 40 50 50 60 70 80 80



7

760 + ☐ = 800
280 + ☐ = 300
570 + ☐ = 600
390 + ☐ = 400
520 + ☐ = 600
610 + ☐ = 700
850 + ☐ = 900
740 + ☐ = 800
670 + ☐ = 700

8

400 − ☐ = 380
700 − ☐ = 670
200 − ☐ = 160
300 − ☐ = 290
800 − ☐ = 750
500 − ☐ = 440
400 − ☐ = 320
700 − ☐ = 690
900 − ☐ = 830

9

540 + ☐ = 600
800 − ☐ = 760
630 + ☐ = 700
600 − ☐ = 520
710 + ☐ = 800
900 − ☐ = 850
450 + ☐ = 500
500 − ☐ = 430
220 + ☐ = 250

7 – **9**: 10 10 10 20 20 20 30 30 30 30 40 40 40 50 50 50 50 60 60 60 70 70 70 80 80 80 90 90

☺ 😐 ☹

1

400 + 7 = ☐
800 + 8 = ☐
500 + 3 = ☐
700 + 2 = ☐
130 + 9 = ☐
525 + 3 = ☐
713 + 6 = ☐
390 + 7 = ☐
488 + 1 = ☐

2

604 − 4 = ☐
905 − 5 = ☐
309 − 9 = ☐
868 − 4 = ☐
257 − 2 = ☐
940 − 5 = ☐
679 − 8 = ☐
513 − 3 = ☐
726 − 6 = ☐

3

200 + ☐ = 209
510 + ☐ = 518
742 + ☐ = 748
354 + ☐ = 359
403 − ☐ = 400
624 − ☐ = 622
838 − ☐ = 831
416 − ☐ = 412
279 − ☐ = 278

3: 1 2 3 4 5 6 7 8 9 10

4

613 + 80 = ☐
531 + 50 = ☐
815 + 60 = ☐
167 + 10 = ☐
858 + 30 = ☐
752 + 40 = ☐
369 + 20 = ☐
216 + 70 = ☐
404 + 90 = ☐

5

295 − 90 = ☐
184 − 70 = ☐
742 − 30 = ☐
678 − 50 = ☐
587 − 60 = ☐
926 − 10 = ☐
498 − 80 = ☐
859 − 20 = ☐
368 − 40 = ☐

6

158 + ☐ = 188
371 + ☐ = 391
509 + ☐ = 599
423 + ☐ = 463
284 − ☐ = 214
657 − ☐ = 607
985 − ☐ = 925
555 − ☐ = 545
793 − ☐ = 713

6: 10 20 30 40 50 60 70 80 90 100

7

150 + 14 = ☐
530 + 22 = ☐
360 + 28 = ☐
840 + 25 = ☐
650 + 19 = ☐
470 + 24 = ☐
710 + 37 = ☐
920 + 53 = ☐
280 + 16 = ☐

8

154 − 14 = ☐
218 − 18 = ☐
475 − 15 = ☐
763 − 33 = ☐
944 − 24 = ☐
262 − 52 = ☐
376 − 46 = ☐
641 − 31 = ☐
587 − 27 = ☐

9

220 + ☐ = 237
470 + ☐ = 495
650 + ☐ = 685
740 + ☐ = 766
373 − ☐ = 360
537 − ☐ = 510
742 − ☐ = 710
265 − ☐ = 220
184 − ☐ = 150

9: 13 17 25 26 27 32 34 35 41 45

☺ 😐 ☹